SAVOIR COMPARER DES FRACTIONS

☑ Si 2 fractions ont le même **dénominateur,** la plus grande est celle qui a le plus grand numérateur.

→ $\frac{7}{8} > \frac{3}{8}$ car $7 > 3$

☑ Si 2 fractions ont le même **numérateur,** la plus grande est celle qui a le plus petit dénominateur.

→ $\frac{3}{4} > \frac{3}{6}$ car $4 < 6$

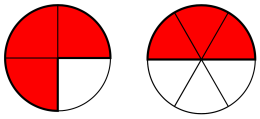

SAVOIR COMPARER DES FRACTIONS

☑ Si 2 fractions ont le même **dénominateur,** la plus grande est celle qui a le plus grand numérateur.

→ $\frac{7}{8} > \frac{3}{8}$ car $7 > 3$

☑ Si 2 fractions ont le même **numérateur,** la plus grande est celle qui a le plus petit dénominateur.

→ $\frac{3}{4} > \frac{3}{6}$ car $4 < 6$

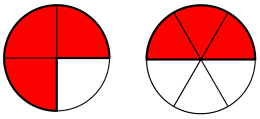

SAVOIR COMPARER DES FRACTIONS

☑ Si 2 fractions ont le même **dénominateur,** la plus grande est celle qui a le plus grand numérateur.

→ $\frac{7}{8} > \frac{3}{8}$ car $7 > 3$

☑ Si 2 fractions ont le même **numérateur,** la plus grande est celle qui a le plus petit dénominateur.

→ $\frac{3}{4} > \frac{3}{6}$ car $4 < 6$

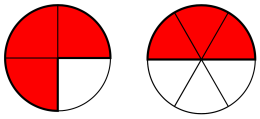

SAVOIR COMPARER DES FRACTIONS

☑ Si 2 fractions ont le même **dénominateur,** la plus grande est celle qui a le plus grand numérateur.

→ $\frac{7}{8} > \frac{3}{8}$ car $7 > 3$

☑ Si 2 fractions ont le même **numérateur,** la plus grande est celle qui a le plus petit dénominateur.

→ $\frac{3}{4} > \frac{3}{6}$ car $4 < 6$

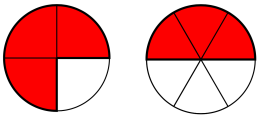

SAVOIR COMPARER DES FRACTIONS

☑ Si 2 fractions ont le même **dénominateur,** la plus grande est celle qui a le plus grand numérateur.

→ $\frac{7}{8} > \frac{3}{8}$ car $7 > 3$

☑ Si 2 fractions ont le même **numérateur,** la plus grande est celle qui a le plus petit dénominateur.

→ $\frac{3}{4} > \frac{3}{6}$ car $4 < 6$

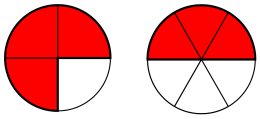

SAVOIR COMPARER DES FRACTIONS

☑ Si 2 fractions ont le même **dénominateur,** la plus grande est celle qui a le plus grand numérateur.

→ $\frac{7}{8} > \frac{3}{8}$ car $7 > 3$

☑ Si 2 fractions ont le même **numérateur,** la plus grande est celle qui a le plus petit dénominateur.

→ $\frac{3}{4} > \frac{3}{6}$ car $4 < 6$

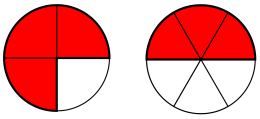

SAVOIR COMPARER DES FRACTIONS

☑ Si 2 fractions ont le même **dénominateur,** la plus grande est celle qui a le plus grand numérateur.

→ $\frac{7}{8} > \frac{3}{8}$ car $7 > 3$

☑ Si 2 fractions ont le même **numérateur,** la plus grande est celle qui a le plus petit dénominateur.

→ $\frac{3}{4} > \frac{3}{6}$ car $4 < 6$

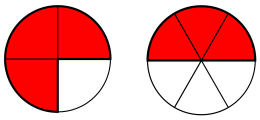

SAVOIR COMPARER DES FRACTIONS

☑ Si 2 fractions ont le même **dénominateur,** la plus grande est celle qui a le plus grand numérateur.

→ $\frac{7}{8} > \frac{3}{8}$ car $7 > 3$

☑ Si 2 fractions ont le même **numérateur,** la plus grande est celle qui a le plus petit dénominateur.

→ $\frac{3}{4} > \frac{3}{6}$ car $4 < 6$

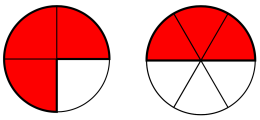

SAVOIR COMPARER DES FRACTIONS

☑ Si 2 fractions ont le même **dénominateur,** la plus grande est celle qui a le plus grand numérateur.

→ $\frac{7}{8} > \frac{3}{8}$ car $7 > 3$

☑ Si 2 fractions ont le même **numérateur,** la plus grande est celle qui a le plus petit dénominateur.

→ $\frac{3}{4} > \frac{3}{6}$ car $4 < 6$

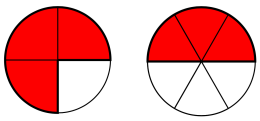

SAVOIR COMPARER DES FRACTIONS

☑ Si 2 fractions ont le même **dénominateur,** la plus grande est celle qui a le plus grand numérateur.

→ $\frac{7}{8} > \frac{3}{8}$ car $7 > 3$

☑ Si 2 fractions ont le même **numérateur,** la plus grande est celle qui a le plus petit dénominateur.
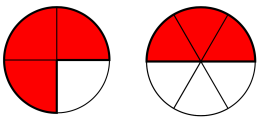
→ $\frac{3}{4} > \frac{3}{6}$ car $4 < 6$